QUARTIER DES EXPLORATEURS

Livret d'activités

Nom : .....

Prénom : .....

Classe : .....

exercice n° 1

SENS DESSUS - DESSOUS

En utilisant un codage de couleurs à ta convenance, associe ces diverses étiquettes pour former 5 ensembles.

Langue

Toucher

Yeux

Goûter

Il y a trop de vinaigre dans cette sauce.

Odorat

Que ces roses sentent bon.

Quelle délicieuse odeur de tarte.

Nez

Oreilles

Il n'y a rien dans cette bouteille.

Toucher

Peau

Cette compote de pommes est trop sucrée.

Goût

Sentir

Ces pommes sont bien vertes.

Allo ! Parle plus fort !

Ce tissu est tout doux.

Ouïe

Aïe, je me suis piqué le doigt.

Cette pomme est bien croquante.

Voir

Vue

Entendre

exercice n° 2

LES SAVEURS

Indique la saveur dominante de chaque mélange goûté.



_____ _____ _____ _____

Indique sur le schéma de la langue les 3 zones sensibles aux différentes saveurs

exercice n° 3

LA MÉMOIRE DU GOÛT

Ecris sous chaque produit sa saveur dominante.



exercice n° 4

DES POMMES DANS TOUS LES SENS

Note au fur et à mesure de la dégustation toutes
pour chacune des 5 variétés de pommes qui sont

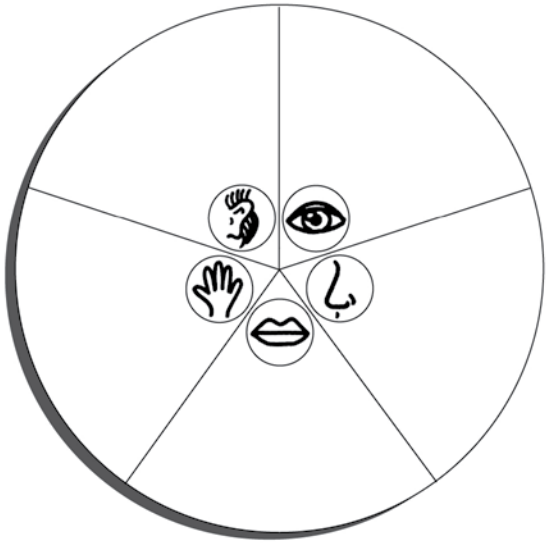

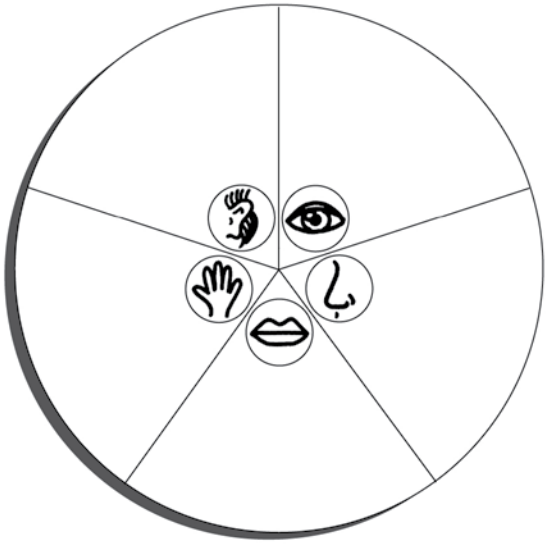

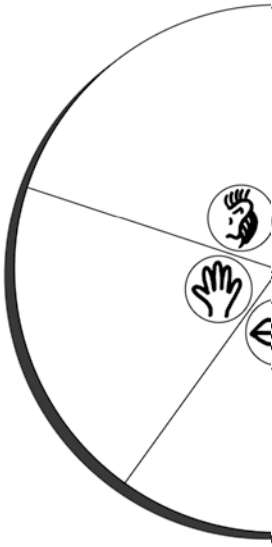

Variété : _____ **Variété :** _____ **Variété :** _____

QUARTIER DES INFOS

En Europe, la France et l'Italie sont les deux premiers pays producteurs de pommes.
Ils produisent chacun entre 2 et 2,5 millions de tonnes de pommes chaque année.
Dans le monde c'est la Chine qui détient la première place : elle en produit 22 millions de tonnes par an.

Le sais-tu ?

En France, la pomme est le premier fruit produit, acheté et consommé.
A ton avis combien de kilos de pommes une famille mange-t-elle sur une année ?

+ de 12 kg ? ☐

+ de 19 kg ? ☐

+ de 23 kg ? ☐

réponse : 20 kg

Source Panel TNS Consoscan

exercice n° 5

LA KERMESSE DES POMMES

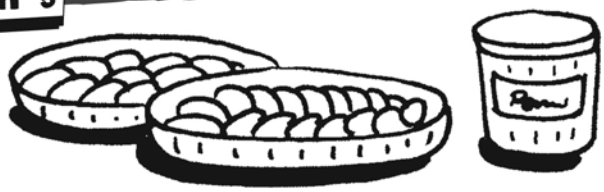

C'est bientôt la kermesse de l'école et Pierre s'est proposé de tenir un stand de dégustation. Maintenant qu'il connaît bien les pommes, il a choisi de préparer deux tartes et de la confiture. Il en parle avec sa mère qui, après une rapide estimation des quantités nécessaires lui confie un billet de 10 €. Pierre part au marché où il achète 2 kg de Gala qu'il paie 4,10 € et 1,5 kg de Golden qu'il paie 2,80 €.
De retour à la maison sa mère lui demande quelle somme il lui reste et quelle variété de pomme est la moins chère ? Peux-tu aider Pierre à répondre à ces questions ?

_____

_____

tes impressions
devant toi.

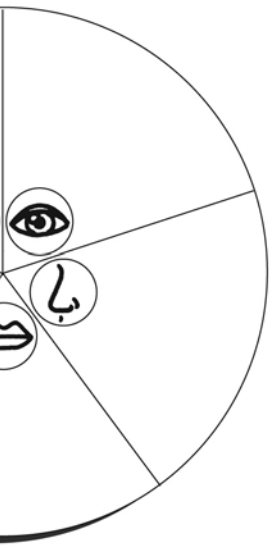

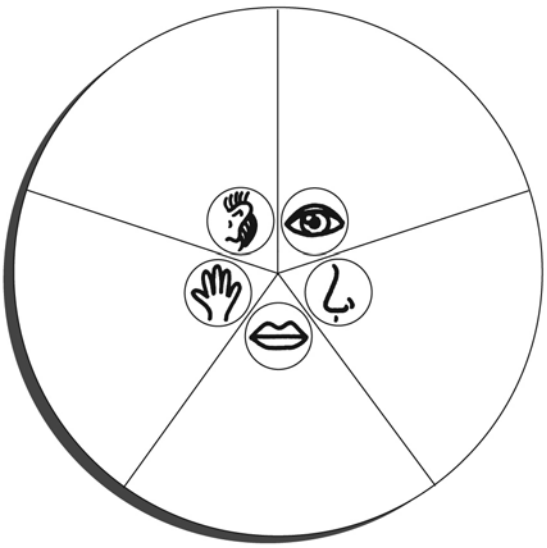

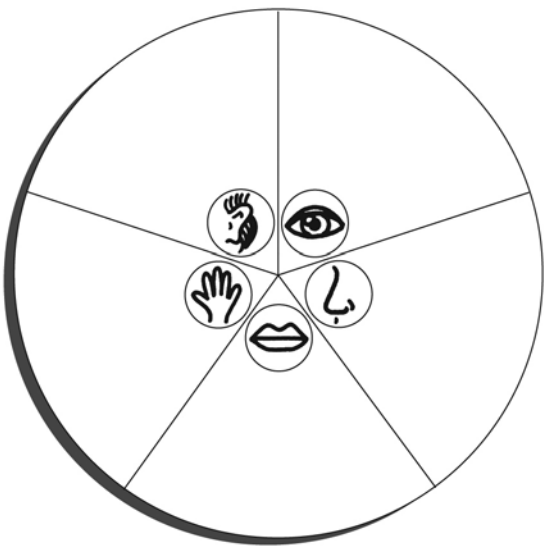

_____ **Variété :** _____ **Variété :** _____

exercice n° 6

LES POMMES CROISÉES

Replace ces différentes variétés de pommes dans cette grille.

FUJI - GALA - ELSTAR - GRANNY
GOLDEN - JONAGOLD - REINETTE

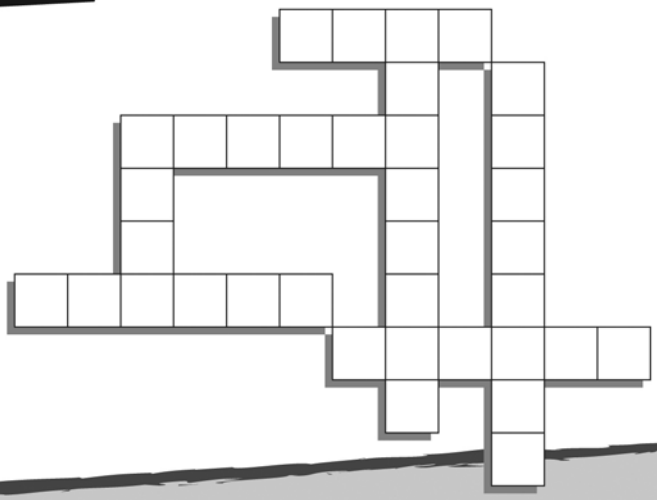

AUTOUR DES POMMES

exercice n° 7

1									
2									
3									
4									
5									
6									
7									

Sur les tartines, elle est délicieuse.

Variété à la fois acidulée et sucrée.

Fourré à la pomme, il est savoureux.

C'est le lieu où l'on cultive les pommes.

C'est la couleur de la Golden.

Variété de pommes originaire de Chine.

Pomme liquide.

1 - confiture 2 - braeburn 3 - beignet 4 - verger 5 - jaune 6 - fuji 7 - jus

exercice n° 8

LA CARTOPOMME

Alors, es-tu un fin connaisseur de pommes ? En regroupant toutes les informations que tu as maintenant sur les pommes, remplis le tableau.

Nom	Couleur	Saison	Caractéristiques principales (saveur et texture)